绵阳中学实验学校高2022级高考模拟（一）
政治试题

一、选择题。本题共 16 小题，每小题 3 分，共 48 分。

1、马克思和恩格斯在《德意志意识形态》中认为，与生产力从采集、渔猎、农业、牧业、手工业到工业生产相适应，社会形态经历了从部落所有制(即原始社会)、古代公社所有制、国家所有制(奴隶制或包含奴隶制)、封建所有制、资本主义所有制到共产主义所有制。对此认识正确的是

①人类社会发展进程是统一性和多样性的统一

②马克思和恩格斯坚持用唯物史观认识人类社会演进

③生产力是人类社会发展的最终决定力量

④《德意志意识形态》构成了科学社会主义的理论基石

A.①③　　B.①④　　C.②③　　D.②④

2、17 世纪初，康帕内拉结合意大利劳动者劳动强度大、地位低、收入少的实际，在《太阳城》中写道，“公社制度使大家都成为富人，同时又都是穷人；他们都是富人，因为大家共同占有一切；他们都是穷人，因为每个人都没有任何私有财产”。这表明，早期空想社会主义者：

①科学地预见了未来社会的特征　　②表达了改变不公平分配的强烈愿望

③看到了无产阶级解放人类的历史主动性　　④对未来社会的设计是基于对现实的批判

A.①②　　B.①③　　C.②④　　D.③④

3、下图为 2024 年第一季度安徽国资监管企业发展状况。由此可以推断出，安徽国有企业

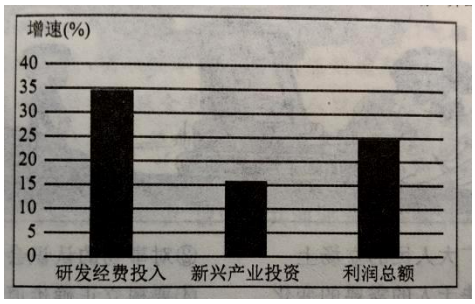

①加大研发投人，提高自主创新能力　　②降低生产成本，扩大企业的盈利空间

③优化产业布局，加快培育发展新动能　　④深化股权改革，增强发展的内生动力

A.①③　　B.①④　　C.②③　　D.②④

4、2025 年 3 月 5 日，李强总理向十四届全国人大三次会议所作《政府工作报告》指出，2025 年发挥好货币政策工具的总量和结构双重功能，适时降准降息，保持流动性充裕，使社会融资规模、货币供应量增长同经济增长、价格总水平预期目标相匹配。这将对经济发展产生的积极影响是

①增加财政对重点领域的支出，优化资源配置

②缓解企业融资难融资贵问题，提振市场信心

③提升金融服务实体经济能力，释放发展潜力

④持续扩大金融机构营利空间，化解金融风险

A.①③　　B.①④　　C.②③　　D.②④

5、2024 年 9 月 13 日，十四届全国人大常委会第十一次会议闭幕。会议经表决通过了新修订的国防教育法、关于修改统计法的决定、全国人大常委会关于在中华人民共和国成立七十五周年之际授予国家勋章和国家荣誉称号的决定；决定了农业农村部部长的任免。这说明

①国防教育法等相关法律都是我国的基本法律

②全国人大常委会行使立法权、决定权和任免权

③我国立法机关对推进国家治理发挥着重要作用

④坚持民主立法要健全立法机关和社会沟通机制

A.①③　　B.①④　　C.②③　　D.②④

6、党中央强调，坚持全面依法治国，在法治轨道上深化改革、推进中国式现代化。建立健全明晰的法治体系，才能确保各经济主体在公平的市场环境中展开竞争，确保改革成果能够公平、公正地惠及全体人民。通过持续完善与公民权利保障紧密相关的法律法规，才能为人民群众提供更加坚实有力的法律保障。这说明，全面推进依法治国要

①发挥法治规范、引领、推动、保障作用

②把国家治理体系和治理能力作为法治的依托

③以保障人民的根本权益为出发点和落脚点

④坚持法律平等属性，合理设定公民权力和责任

A.①③　　B.①④　　C.②③　　D.②④

7、在中国共产党的坚强领导和全国各族人民的大力支援下，1959—2024 年，西藏地区生产总值由 1.74 亿元增长到 2764.94 亿元，医疗卫生机构由 3 所增加到 1821 所，基本建成五级卫生健康服务网络。西藏经济社会的发展

①表明我国民族间发展不平衡问题已得到解决

②说明民族团结是经济发展和社会进步的保证

③有助于铸牢中华民族共同体意识

④确立了平等团结互助和谐的社会主义民族关系

A.①③　　B.①④　　C.②③　　D.②④

8、下面漫画《持续深化整治》给我们的启示是

①对事物的认识会受到主体差异性的影响

②必须要自觉站在最广大人民的立场上

③事物价值的变化取决于人的需要的变化

④要树立正确价值观并作出正确价值选择

A.①③　　B.①④　　C.②③　　D.②④

9、喷泉之所以漂亮，是因为它有压力；瀑布之所以壮观，是因为它没有退路；滴水之所以可以穿石，是因为它长期坚持。这启示我们要

①在对立中把握统一，把压力转化为动力　　②着重把握主要矛盾，反对均衡论

③重视量的积累，为实现质变创造条件　　④尊重联系的客观性，切忌主观随意性

A.①②　　B.①③　　C.②④　　D.③④

10、2024 年，中国国产单机游戏《黑神话：悟空》在全球引发“西游热”。该游戏发售不到 4 天就破千万销量，这样的成绩不仅在中国国产游戏历史上尚属首次，放眼全球也屈指可数。游戏中的背景是制作团队经实地考察，对古建筑精细还原而成，效果震撼，更彰显中华传统文化的魅力，吸引了海内外众多玩家。由此可见

①文化与经济相互交融，优秀文化推动经济发展

②文化传播加深了海外民众对中华文化的认同

③中外文化交融借鉴能够增强中华文化的传播力

④文化发展要融通不同资源，实现综合创新

A.①②　　B.①④　　C.②③　　D.③④

11、2024 年 11 月，《联合国气候变化框架公约》第二十九次缔约方大会达成了一揽子平衡成果，为发展中国家开展气候行动、提交新一轮国家自主贡献奠定了基础。中国积极推动气候谈判，设立“中国角”向国际社会介绍应对气候变化的经验，举办了丰富的边会活动。这表明

①中国以实际行动践行多边主义，为全球气候治理贡献中国方案

②在解决温室气体排放上，发达国家与发展中国家具有相同义务

③该公约对缔约方具有法律约束力，推动了全球绿色低碳转型

④面对全球气候变化挑战，中国捍卫了公平合理的国际新秩序

A.①②　　B.①③　　C.②④　　D.③④

12、甲国生产 1 吨大米需要 20 小时，生产 1 台电脑需要 20 小时；乙国生产 1 吨大米需要 30 小时，生产 1 台电脑需要 40 小时。 根据比较优势理论，下列说法正确的是

A.甲国在大米和电脑生产上均具有绝对优势，无需与乙国贸易

B.乙国生产大米的机会成本高于甲国，应进口大米

C.乙国生产电脑的机会成本更低，应专门生产电脑并出口

D.甲国生产电脑的机会成本更低，应专门生产电脑并出口

13、张三以 100 万元从开发商手里购置了一套房屋，完成交付后办理了房产证。后来张三因经营需要，将该套房屋抵押给当地一家银行，获得了 90 万元贷款。但在贷款到期后，张三因资金链断裂无法按时偿还贷款，银行遂诉至法院。在本案中

①经依法登记，张三取得了该房屋的所有权

②张三作为房产权利人，对房屋享有抵押权

③办理房屋抵押后，银行对该房屋取得了用益物权

④若张三不履行债务，银行可对该房屋主张优先受偿权

A.①③　　B.①④　　C.②③　　D.②④

14、甲乙双方签订了一份供货合同，约定甲方向乙方在一个月内提供特定产品。然而，由于甲方的原材料供应商未能按时供货，导致甲方无法按时向乙方提供产品，给乙方造成了损失。乙方要求甲方赔偿损失，但甲方以不可抗力为由拒绝赔偿。对本案说法正确的是

①甲方应该补偿对乙方造成的损失　　②甲方主张不可抗力的理由不成立

③双方签订的供货合同是有效合同　　④乙方有权向法院对甲方提起上诉

A.①②　　B.①④　　C.②③　　D.③④

15、2024 年 6 月 25 日，嫦娥六号携带月球背面样品返回地球，科学研究揭示月球背面在大约 28 亿年前仍存在活跃的岩浆活动。2025 年 4 月 24 日，神舟二十号飞船在酒泉卫星发射中心发射，弘扬了特别能吃苦、特别能战斗、特别能攻关、特别能奉献的载人航天精神。新中国成立以来，我国航天事业从无到有、从弱到强。只有一代代航天人坚持自力更生，才能使航天强国建设迈出坚实步伐。由此可见

①嫦娥六号科研活动体现了从感性具体到思维抽象再到思维具体的认识过程

②我国航天事业的发展把握了事物发展过程中的渐进性与飞跃性

③运用划分的方法界定了载人航天精神的外延，揭示了本质属性

④如果航天强国建设迈出了坚实步伐，那么一代代航天人坚持了自力更生

A.①②　　B.①③　　C.②④　　D.③④

16．某班同学在学习三段论推理时，围绕人工智能系统这一主题开展探究性学习，有以下判断

①人工智能系统能适应新环境

②人工智能系统具备动态学习能力和数据反馈机制

③有的能适应新环境的系统具备动态学习能力和数据反馈机制

④所有具备动态学习能力和数据反馈机制的系统都能适应新环境

若以上四个判断均为真，从中选取三个，依次作为大前提、小前提、结论进行三段论推理。符合上述推理规则的是

A.②—④—①　　B.④—②—①　　C.③—①—②　　D.③—②—①

二、问答题

17、材料一　党的二十届三中全会通过了《中共中央关于进一步全面深化改革、推进中国式现代化的决定》(以下简称《决定》)。《决定》对构建高水平社会主义市场经济体制作出部署，要求创造更加公平、更有活力的市场环境，激发全社会内生动力和创新活力。《决定》提出要坚持和落实“两个毫不动摇”。一方面，要深化国资国企改革，推动国有资本和国有企业做强做优做大，增强核心功能，提升核心竞争力。另一方面，要为非公有制经济发展营造良好环境、提供更多机会，规范涉民营企业行政检查。为加快建设高标准市场体系，《决定》明确了构建全国统一大市场，包括构建城乡统一的建设用地市场，全国一体化技术和数据市场，全国统一电力市场等；明确了推进要素市场化改革，健全劳动、资本、土地、知识、技术、管理、数据等要素市场制度和规则；明确了完善市场经济基础制度，包括完善产权保护、信息披露、市场准入、破产退出、信用监管等制度。

结合材料一，运用《经济与社会》的知识，说明构建高水平社会主义市场经济体制的意义。（8分）

材料二　中国式现代化是走和平发展道路的现代化。近年来，随着共建“一带一路”合作从“大写意”进入“工笔画”阶段，一大批惠民生的“小而美”项目在共建国家落地生根。中老铁路安居村系列项目提升地区发展水平、“200口井”项目帮助卢旺达村民吃上“放心水”、援建牙买加中国园林项目丰富当地民众精神生活……

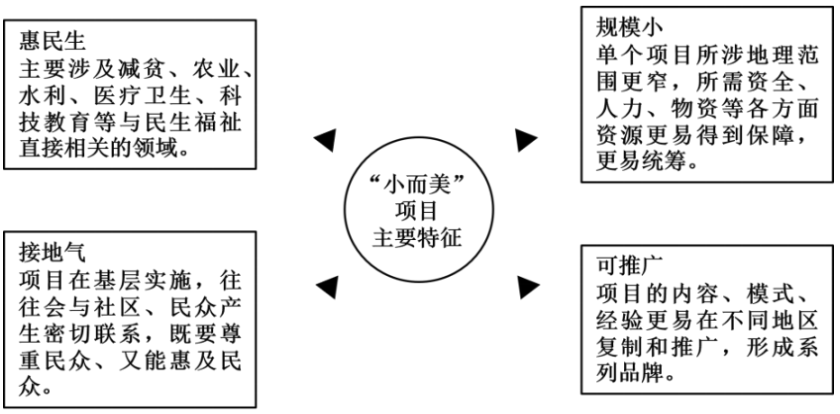

“小而美”项目承载着各国民众对美好生活的向往，为促进当地经济社会发展、中外民心相通发挥了重要作用，让“一带一路”这条幸福路、发展路铺得更宽、更远。“小而美”项目已逐渐成为中国开展国际发展合作的亮点和名片。

结合材料二，用《当代国际政治与经济》知识，说明“小而美”项目为何成为中国开展国际发展合作的亮点和名片。（10分）

18、2025年3月，十四届全国人大三次会议审议通过了《中华人民共和国全国人民代表大会和地方各级人民代表大会代表法（修正草案）》，这是该法第四次修改。此次修改围绕充分发挥人大代表作用，重点突出以下内容：

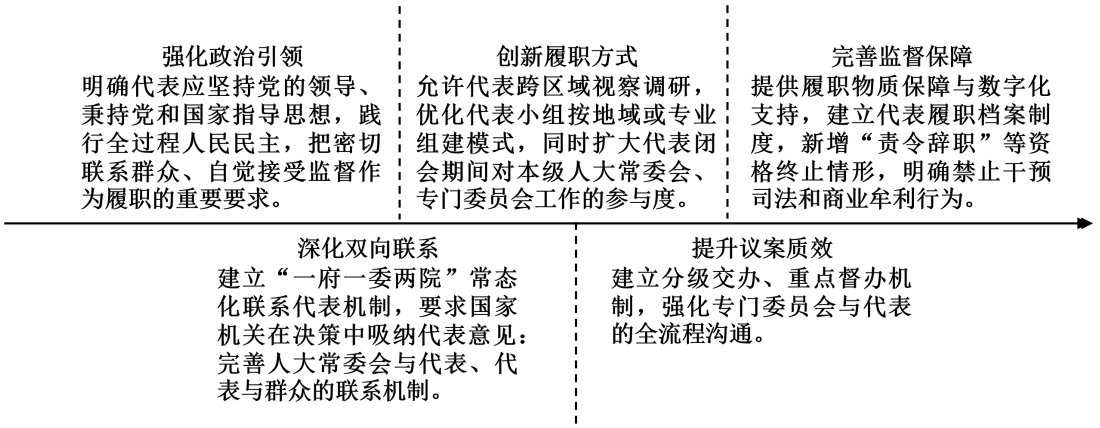

结合材料，运用《政治与法治》的相关知识，分析说明代表法的修改对发展社会主义民主政治的作用。（10分）

19、林某是一名AIGC设计者。2024年2月，他使用人工智能工具，通过多次输入提示词进行文生图创作，生成了夜晚东方明珠边爱心气球的图片，并在迭代过程中利用修图软件进行数次手动修改，最终完成了《伴心》作品，并发布于某平台账号。2024年4月，林某在国家版权局对该作品进行了美术作品登记。2024年11月，杭州某技术公司在某平台账号上多次发布爱心气球模组安装视频及图片，内容与《伴心》作品高度相似，仅在长宽比、气球表面文字、倒影对应的东方明珠等方面存在差异。常熟某房地产公司则在其微信推文中使用了该图片，并在商业区湖面内建造了半个爱心气球的立体装置。林某认为其著作权被侵犯，便向常熟市人民法院提起诉讼，要求两被告在该平台上连续三日赔礼道歉，并赔偿经济损失及合理费用。法院经过审理，认定两被告侵犯了林某的著作权，但常熟某房地产公司以“爱心”为基础建造实体装置的行为不属于侵权。

结合材料，运用所学的法律知识，说明法院作出上述判决的理由，并简要说明这一判决的意义。（10分）

20、新中国成立以来，在党中央的高度重视下，经过一代又一代科技工作者的不懈奋斗，中国科技事业从几乎一片空白正向着科技强国加速迈进。

材料一　黄旭华院士是中国核潜艇事业的奠基人之一，被誉为“中国核潜艇之父”。面对西方技术封锁和科研条件匮乏的困境，1958年，中央正式宣布启动核潜艇研发项目。同年，黄旭华开始参与并领导中国第一艘核潜艇的研究设计工作。他带领团队在攻克推进系统与动力匹配技术难题时，用算盘、计算尺、磅秤等最“土”的方法反复测量数万个零件，将误差控制在发丝直径的十分之一；面对外界对中国核潜艇噪声的质疑，他带领团队攻坚克难，完成静音技术革命；在攻克“水滴线型设计”等七大核心技术时，团队历经3000多次失败，最终突破国外技术垄断，于1970年成功研制出中国第一艘核潜艇。

材料二　2024年12月27日，光启技术股份有限公司与四川省乐山市人民政府签订《先进低空无人机产业链总部基地项目投资协议》,拟在高新区建设低空无人机产业链总部基地，在犍为县建设无人机生产和试飞基地，同时引入相关产业上下游企业，形成低空经济产业集群，以新质生产力赋能区域经济增长，促进乐山低空经济产业协同发展，提升乐山区域的产业竞争力。

（1）结合材料一，运用追求真理的知识说明我国核潜艇研究团队是如何攻克核潜艇技术难题的？（8分）

（2）无人机项目可以与其他产业融合发展，请运用创新思维的相关知识完成下列要求：选择两个无人机以外的产业，设计一种融合发展的新模式，并阐述其可行性和潜在效益。（6分）